Nome: _____ Data: _____/_____/_____

Cruzadinha de matemática: folha 1 (gabarito)

Resolva a conta e escreva o resultado por extenso, uma letra em cada quadrinho.

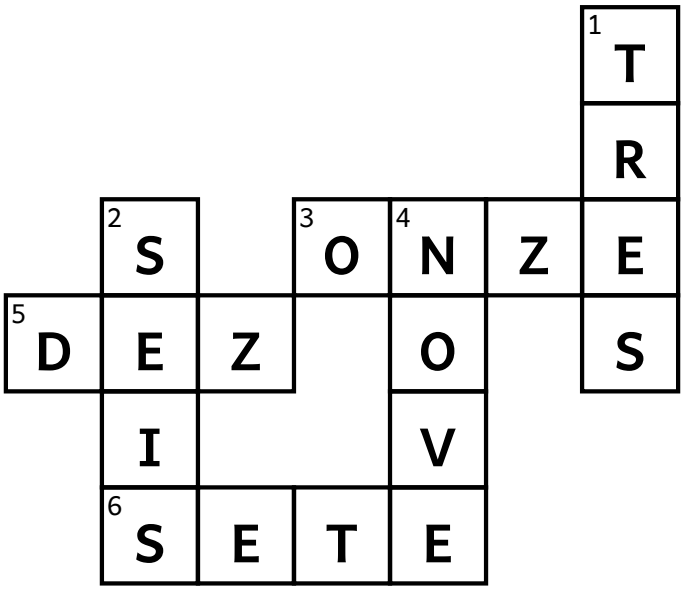

Horizontais →

3. 20 − 9
5. 5 + 5
6. 10 − 3

Verticais ↓

1. 9 ÷ 3
2. 3 + 3
4. 3 × 3

Livre para uso em casa e na escola. Não revender ou republicar.

Nome: _____ Data: _____/_____/_____

Cruzadinha de matemática: folha 2 (gabarito)

Resolva a conta e escreva o resultado por extenso, uma letra em cada quadrinho.

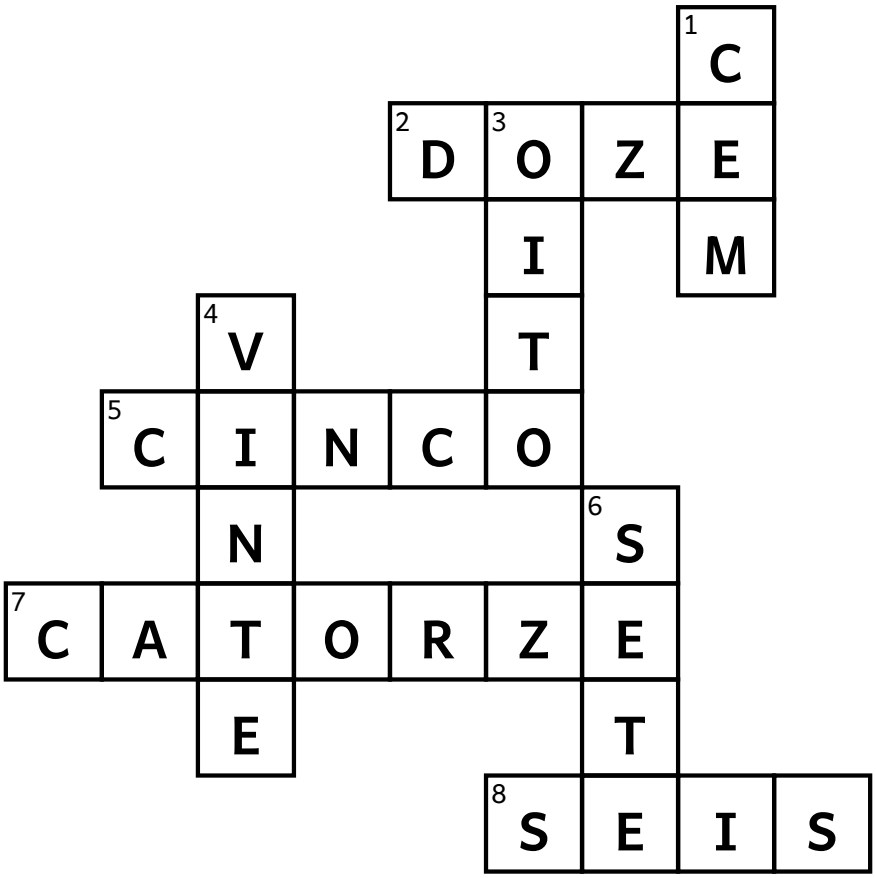

Horizontais →

2. 6 × 2
5. 10 ÷ 2
7. 7 × 2
8. 3 + 3

Verticais ↓

1. 50 + 50
3. 4 + 4
4. 10 + 10
6. 10 − 3

Livre para uso em casa e na escola. Não revender ou republicar.

Nome: _____ Data: _____/_____/_____

Cruzadinha de matemática: folha 3 (gabarito)

Resolva a conta e escreva o resultado por extenso, uma letra em cada quadrinho.

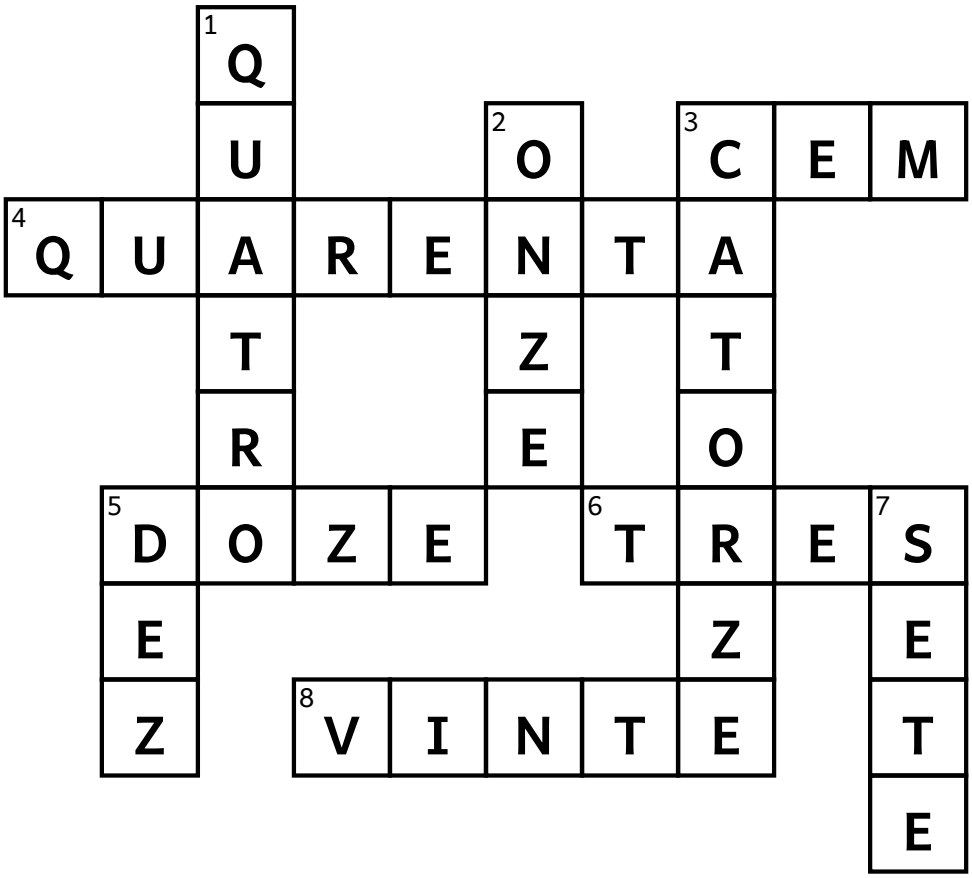

Horizontais →

3. 50 + 50
4. 8 × 5
5. 6 × 2
6. 9 ÷ 3
8. 10 + 10

Verticais ↓

1. 8 ÷ 2
2. 20 − 9
3. 7 × 2
5. 5 + 5
7. 10 − 3

Livre para uso em casa e na escola. Não revender ou republicar.