Nome: _____ Data: _____/_____/_____

Conte as dezenas e as unidades

Cada barra vale 10 e cada quadradinho vale 1. Escreva quantas dezenas e quantas unidades.

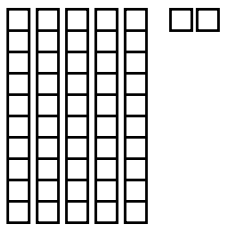

dezenas ____ unidades ____

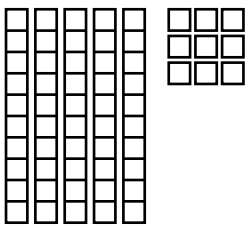

dezenas ____ unidades ____

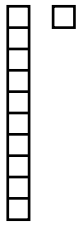

dezenas ____ unidades ____

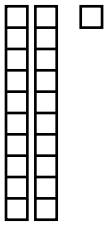

dezenas ____ unidades ____

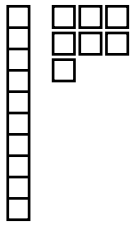

dezenas ____ unidades ____

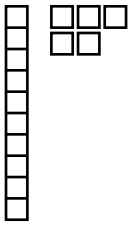

dezenas ____ unidades ____

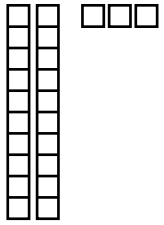

dezenas ____ unidades ____

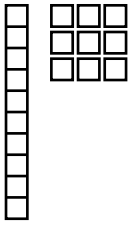

dezenas ____ unidades ____

Livre para uso em casa e na escola. Não revender ou republicar.

Nome: _____ Data: _____/_____/_____

Dezenas e unidades até 99

Conte as barras e os quadradinhos. Depois escreva as dezenas e as unidades.

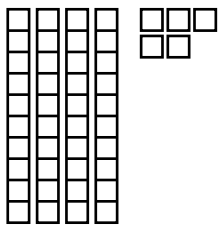

dezenas ____ unidades ____

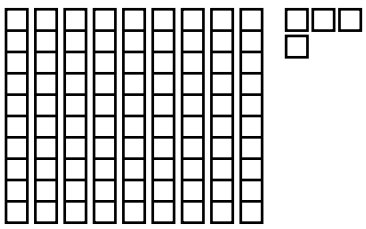

dezenas ____ unidades ____

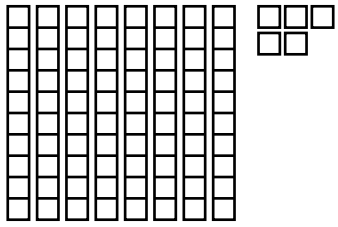

dezenas ____ unidades ____

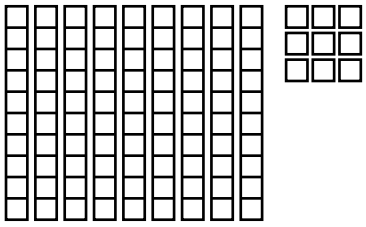

dezenas ____ unidades ____

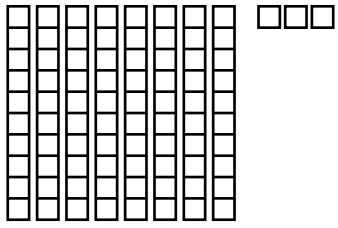

dezenas ____ unidades ____

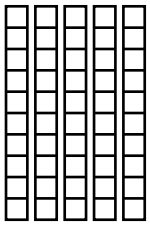

dezenas ____ unidades ____

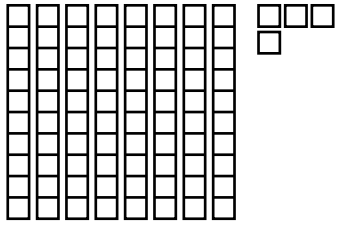

dezenas ____ unidades ____

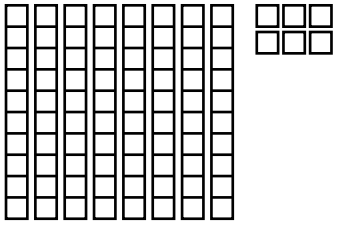

dezenas ____ unidades ____

Livre para uso em casa e na escola. Não revender ou republicar.

Nome: _____ Data: _____/_____/_____

Quantas dezenas e unidades?

Escreva quantas dezenas e quantas unidades tem cada número.

88 = _____

17 = _____

50 = _____

60 = _____

26 = _____

20 = _____

39 = _____

16 = _____

51 = _____

77 = _____

82 = _____

89 = _____

84 = _____

57 = _____

14 = _____

74 = _____

48 = _____

21 = _____

32 = _____

23 = _____

Livre para uso em casa e na escola. Não revender ou republicar.

Nome: _____ Data: _____/_____/_____

Decomponha em dezenas e unidades

Escreva cada número como uma soma: 47 = 40 + 7.

61 = _____

37 = _____

56 = _____

34 = _____

84 = _____

48 = _____

57 = _____

16 = _____

31 = _____

62 = _____

15 = _____

40 = _____

90 = _____

60 = _____

19 = _____

59 = _____

45 = _____

97 = _____

94 = _____

33 = _____

Livre para uso em casa e na escola. Não revender ou republicar.

Nome: _____ Data: _____/_____/_____

Monte o número

Junte as dezenas e as unidades e escreva o número.

4 dezenas e 1 unidades = _____

1 dezenas e 7 unidades = _____

5 dezenas e 5 unidades = _____

3 dezenas e 7 unidades = _____

2 dezenas e 7 unidades = _____

8 dezenas e 3 unidades = _____

2 dezenas e 8 unidades = _____

8 dezenas e 8 unidades = _____

4 dezenas e 8 unidades = _____

9 dezenas e 3 unidades = _____

3 dezenas e 7 unidades = _____

8 dezenas e 0 unidades = _____

2 dezenas e 0 unidades = _____

1 dezenas e 6 unidades = _____

3 dezenas e 0 unidades = _____

6 dezenas e 6 unidades = _____

8 dezenas e 0 unidades = _____

4 dezenas e 7 unidades = _____

1 dezenas e 3 unidades = _____

4 dezenas e 8 unidades = _____

Livre para uso em casa e na escola. Não revender ou republicar.