Nome: _____ Data: _____/_____/_____

Conte as dezenas e as unidades (gabarito)

Cada barra vale 10 e cada quadradinho vale 1. Escreva quantas dezenas e quantas unidades.

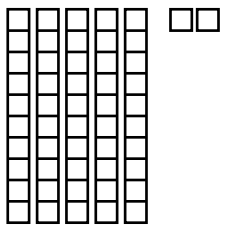

dezenas **5** unidades **2**

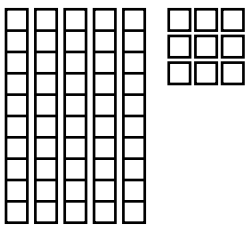

dezenas **5** unidades **9**

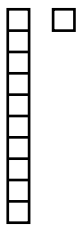

dezenas **1** unidades **1**

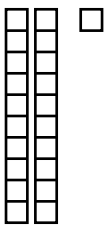

dezenas **2** unidades **1**

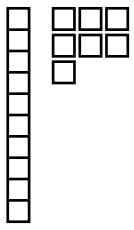

dezenas **1** unidades **7**

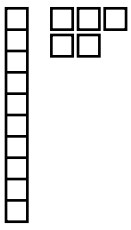

dezenas **1** unidades **5**

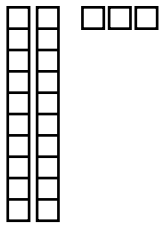

dezenas **2** unidades **3**

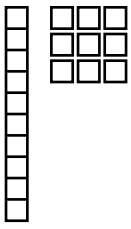

dezenas **1** unidades **9**

Livre para uso em casa e na escola. Não revender ou republicar.

Nome: _____ Data: _____/_____/_____

Dezenas e unidades até 99 (gabarito)

Conte as barras e os quadradinhos. Depois escreva as dezenas e as unidades.

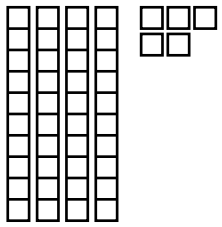

dezenas **4** unidades **5**

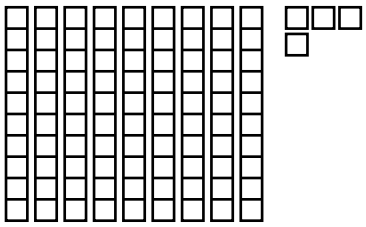

dezenas **9** unidades **4**

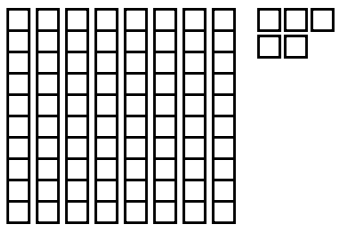

dezenas **8** unidades **5**

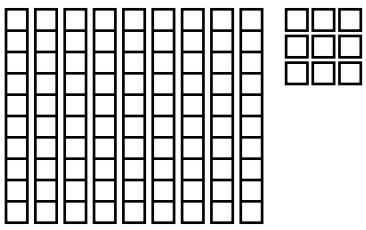

dezenas **9** unidades **9**

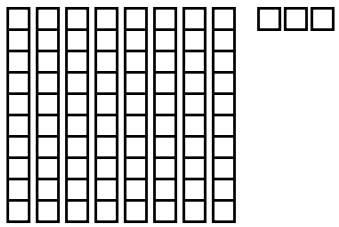

dezenas **8** unidades **3**

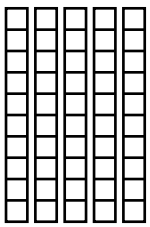

dezenas **5** unidades **0**

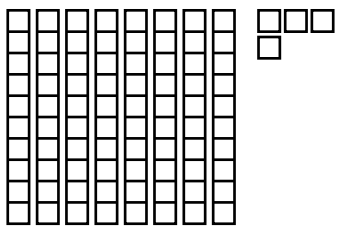

dezenas **8** unidades **4**

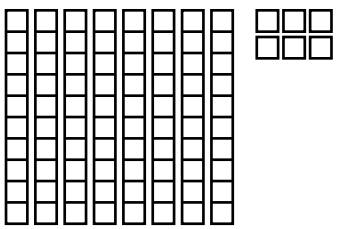

dezenas **8** unidades **6**

Livre para uso em casa e na escola. Não revender ou republicar.

Nome: _____ Data: _____/_____/_____

Quantas dezenas e unidades? (gabarito)

Escreva quantas dezenas e quantas unidades tem cada número.

88 = **8 d e 8 u**

17 = **1 d e 7 u**

50 = **5 d e 0 u**

60 = **6 d e 0 u**

26 = **2 d e 6 u**

20 = **2 d e 0 u**

39 = **3 d e 9 u**

16 = **1 d e 6 u**

51 = **5 d e 1 u**

77 = **7 d e 7 u**

82 = **8 d e 2 u**

89 = **8 d e 9 u**

84 = **8 d e 4 u**

57 = **5 d e 7 u**

14 = **1 d e 4 u**

74 = **7 d e 4 u**

48 = **4 d e 8 u**

21 = **2 d e 1 u**

32 = **3 d e 2 u**

23 = **2 d e 3 u**

Livre para uso em casa e na escola. Não revender ou republicar.

Nome: _____ Data: _____/_____/_____

Decomponha em dezenas e unidades (gabarito)

Escreva cada número como uma soma: 47 = 40 + 7.

61 = **60 + 1**

37 = **30 + 7**

56 = **50 + 6**

34 = **30 + 4**

84 = **80 + 4**

48 = **40 + 8**

57 = **50 + 7**

16 = **10 + 6**

31 = **30 + 1**

62 = **60 + 2**

15 = **10 + 5**

40 = **40 + 0**

90 = **90 + 0**

60 = **60 + 0**

19 = **10 + 9**

59 = **50 + 9**

45 = **40 + 5**

97 = **90 + 7**

94 = **90 + 4**

33 = **30 + 3**

Livre para uso em casa e na escola. Não revender ou republicar.

Nome: _____ Data: _____/_____/_____

Monte o número (gabarito)

Junte as dezenas e as unidades e escreva o número.

4 dezenas e 1 unidades = **41**

1 dezenas e 7 unidades = **17**

5 dezenas e 5 unidades = **55**

3 dezenas e 7 unidades = **37**

2 dezenas e 7 unidades = **27**

8 dezenas e 3 unidades = **83**

2 dezenas e 8 unidades = **28**

8 dezenas e 8 unidades = **88**

4 dezenas e 8 unidades = **48**

9 dezenas e 3 unidades = **93**

3 dezenas e 7 unidades = **37**

8 dezenas e 0 unidades = **80**

2 dezenas e 0 unidades = **20**

1 dezenas e 6 unidades = **16**

3 dezenas e 0 unidades = **30**

6 dezenas e 6 unidades = **66**

8 dezenas e 0 unidades = **80**

4 dezenas e 7 unidades = **47**

1 dezenas e 3 unidades = **13**

4 dezenas e 8 unidades = **48**

Livre para uso em casa e na escola. Não revender ou republicar.