Nome: _____ Data: _____/_____/_____

# Que fração está pintada? Barras e colunas (gabarito)

Escreva a fração do total que está pintada em cada figura.



Fração pintada: $\frac{1}{2}$



Fração pintada: $\frac{1}{3}$



Fração pintada: $\frac{1}{4}$



Fração pintada: $\frac{2}{5}$



Fração pintada: $\frac{5}{6}$



Fração pintada: $\frac{7}{8}$



Fração pintada: $\frac{2}{3}$



Fração pintada: $\frac{3}{4}$



Livre para uso em casa e na escola. Não revender ou republicar.