Nome: _____ Data: _____/_____/_____

Que fração está pintada? Barras e colunas

Escreva a fração do total que está pintada em cada figura.



Fração pintada: ☐



Fração pintada: ☐



Fração pintada: ☐



Fração pintada: ☐



Fração pintada: ☐



Fração pintada: ☐



Fração pintada: ☐



Fração pintada: ☐

Livre para uso em casa e na escola. Não revender ou republicar.