Nome: _____ Data: _____/_____/_____

Décimos: quanto está pintado?

A barra toda vale 1 e cada pedaço vale 0,1. Escreva o número decimal.

 = _____

 = _____

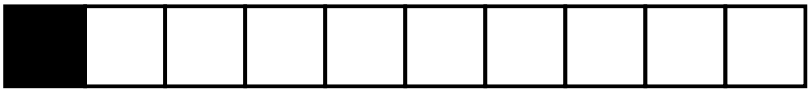 = _____

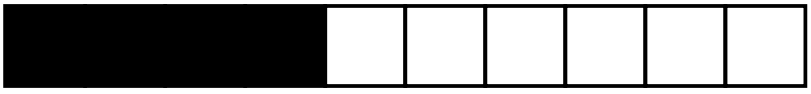 = _____

 = _____

 = _____

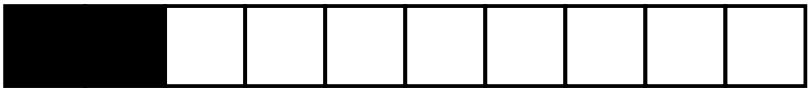 = _____

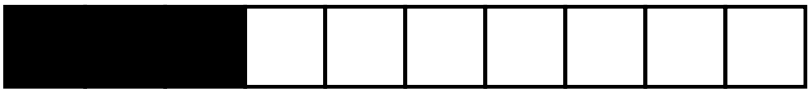 = _____

Livre para uso em casa e na escola. Não revender ou republicar.

Nome: _____ Data: _____/_____/_____

Fração e número decimal

Décimos têm uma casa depois da vírgula e centésimos têm duas.

7/10 = _____	31/100 = _____
2/10 = _____	32/100 = _____
2/10 = _____	31/100 = _____
4/10 = _____	88/100 = _____
2/10 = _____	46/100 = _____
4/10 = _____	89/100 = _____
5/10 = _____	81/100 = _____
6/10 = _____	97/100 = _____
4/10 = _____	14/100 = _____
1/10 = _____	88/100 = _____

Livre para uso em casa e na escola. Não revender ou republicar.

Nome: _____ Data: _____/_____/_____

Compare números decimais

Compare primeiro a parte inteira. Se for igual, compare os décimos.

0,9	☐	0,8	7,1	☐	8,2
8,6	☐	9,8	4,9	☐	4,9
1,3	☐	0,9	4,2	☐	4,2
9,7	☐	9,7	1,9	☐	0,3
5,0	☐	6,7	6,0	☐	6,6
4,7	☐	2,8	6,6	☐	6,6
7,0	☐	8,4	7,0	☐	7,2
6,3	☐	6,3	9,6	☐	8,2
7,2	☐	6,0	1,5	☐	3,3
7,3	☐	6,5	2,2	☐	2,2

Livre para uso em casa e na escola. Não revender ou republicar.

Nome: _____ Data: _____/_____/_____

Adição e subtração com decimais

Alinhe vírgula embaixo de vírgula. Pense em dinheiro: 2,50 é dois reais e cinquenta centavos.

1)

$$\begin{array}{r} 1{,}91 \\ +\ 7{,}46 \\ \hline \end{array}$$

2)

$$\begin{array}{r} 1{,}23 \\ +\ 4{,}51 \\ \hline \end{array}$$

3)

$$\begin{array}{r} 6{,}87 \\ +\ 4{,}79 \\ \hline \end{array}$$

4)

$$\begin{array}{r} 4{,}73 \\ +\ 6{,}28 \\ \hline \end{array}$$

5)

$$\begin{array}{r} 3{,}21 \\ +\ 8{,}47 \\ \hline \end{array}$$

6)

$$\begin{array}{r} 8{,}73 \\ +\ 8{,}04 \\ \hline \end{array}$$

7)

$$\begin{array}{r} 7{,}75 \\ -\ 2{,}30 \\ \hline \end{array}$$

8)

$$\begin{array}{r} 8{,}75 \\ -\ 1{,}19 \\ \hline \end{array}$$

9)

$$\begin{array}{r} 4{,}58 \\ -\ 3{,}28 \\ \hline \end{array}$$

10)

$$\begin{array}{r} 5{,}64 \\ -\ 3{,}60 \\ \hline \end{array}$$

11)

$$\begin{array}{r} 6{,}88 \\ -\ 2{,}20 \\ \hline \end{array}$$

12)

$$\begin{array}{r} 8{,}94 \\ -\ 6{,}12 \\ \hline \end{array}$$

Livre para uso em casa e na escola. Não revender ou republicar.