Nome: _____ Data: _____/_____/_____

Décimos: quanto está pintado? (gabarito)

A barra toda vale 1 e cada pedaço vale 0,1. Escreva o número decimal.



= **0,9**



= **0,5**

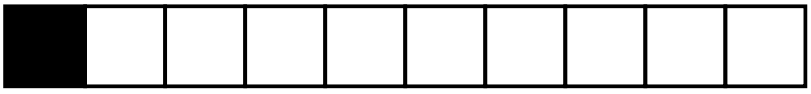

= **0,1**

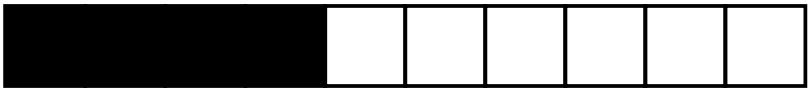

= **0,4**



= **0,7**



= **0,8**

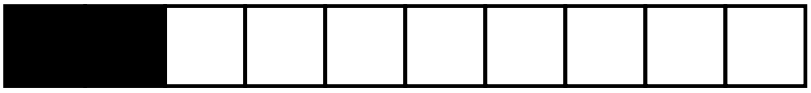

= **0,2**

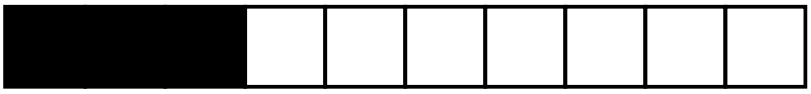

= **0,3**

Livre para uso em casa e na escola. Não revender ou republicar.

Nome: _____ Data: _____/_____/_____

Fração e número decimal (gabarito)

Décimos têm uma casa depois da vírgula e centésimos têm duas.

7/10 = **0,7**	31/100 = **0,31**
2/10 = **0,2**	32/100 = **0,32**
2/10 = **0,2**	31/100 = **0,31**
4/10 = **0,4**	88/100 = **0,88**
2/10 = **0,2**	46/100 = **0,46**
4/10 = **0,4**	89/100 = **0,89**
5/10 = **0,5**	81/100 = **0,81**
6/10 = **0,6**	97/100 = **0,97**
4/10 = **0,4**	14/100 = **0,14**
1/10 = **0,1**	88/100 = **0,88**

Livre para uso em casa e na escola. Não revender ou republicar.

Nome: _____ Data: _____/_____/_____

Compare números decimais (gabarito)

Compare primeiro a parte inteira. Se for igual, compare os décimos.

0,9 **>** 0,8	7,1 **<** 8,2
8,6 **<** 9,8	4,9 **=** 4,9
1,3 **>** 0,9	4,2 **=** 4,2
9,7 **=** 9,7	1,9 **>** 0,3
5,0 **<** 6,7	6,0 **<** 6,6
4,7 **>** 2,8	6,6 **=** 6,6
7,0 **<** 8,4	7,0 **<** 7,2
6,3 **=** 6,3	9,6 **>** 8,2
7,2 **>** 6,0	1,5 **<** 3,3
7,3 **>** 6,5	2,2 **=** 2,2

Livre para uso em casa e na escola. Não revender ou republicar.

Nome: _____ Data: _____/_____/_____

Adição e subtração com decimais (gabarito)

Alinhe vírgula embaixo de vírgula. Pense em dinheiro: 2,50 é dois reais e cinquenta centavos.

1)

1,91
+ 7,46
9,37

2)

1,23
+ 4,51
5,74

3)

6,87
+ 4,79
11,66

4)

4,73
+ 6,28
11,01

5)

3,21
+ 8,47
11,68

6)

8,73
+ 8,04
16,77

7)

7,75
− 2,30
5,45

8)

8,75
− 1,19
7,56

9)

4,58
− 3,28
1,30

10)

5,64
− 3,60
2,04

11)

6,88
− 2,20
4,68

12)

8,94
− 6,12
2,82

Livre para uso em casa e na escola. Não revender ou republicar.