Nome: _____ Data: _____/_____/_____

Escreva o número do ordinal

Leia o nome e escreva o número: terceiro é 3º.

segundo = _____

terceiro = _____

primeiro = _____

nono = _____

quarto = _____

quinto = _____

sétimo = _____

quinto = _____

quarto = _____

primeiro = _____

décimo = _____

sexto = _____

sexto = _____

sétimo = _____

décimo = _____

nono = _____

oitavo = _____

segundo = _____

terceiro = _____

oitavo = _____

Livre para uso em casa e na escola. Não revender ou republicar.

Nome: _____ Data: _____/_____/_____

Escreva o nome do ordinal

Leia o número e escreva o nome: 7º é sétimo.

7º = _____

9º = _____

2º = _____

4º = _____

5º = _____

4º = _____

3º = _____

7º = _____

8º = _____

8º = _____

6º = _____

5º = _____

1º = _____

2º = _____

10º = _____

9º = _____

3º = _____

6º = _____

10º = _____

1º = _____

Livre para uso em casa e na escola. Não revender ou republicar.

Nome: _____ Data: _____/_____/_____

Circule a posição pedida

Conte da esquerda para a direita e circule a figura da posição pedida.

Circule o 5º (quinto).



Circule o 1º (primeiro).

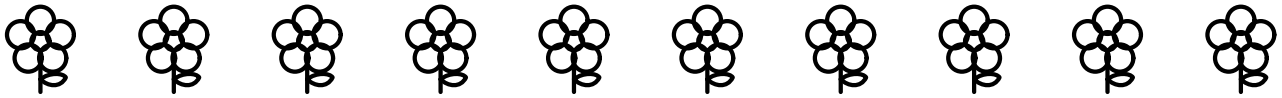

Circule o 2º (segundo).



Circule o 9º (nono).

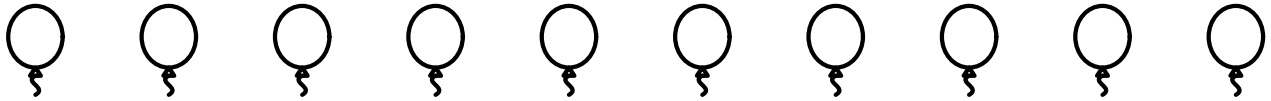

Circule o 1º (primeiro).

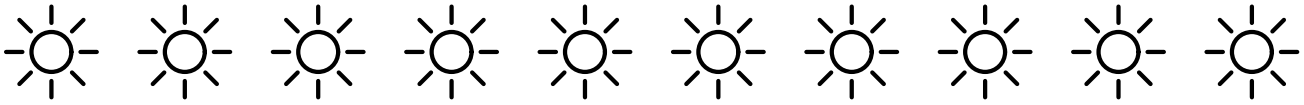

Circule o 6º (sexto).

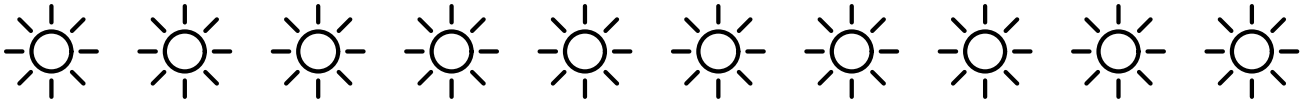

Livre para uso em casa e na escola. Não revender ou republicar.

Nome: _____ Data: _____/_____/_____

Complete a fila de ordinais

Escreva os ordinais que faltam em cada fila.

	4º		6º	7º	8º
	5º	6º		8º	9º
	5º	6º		8º	9º
3º	4º		6º	7º	
1º	2º	3º			6º
2º	3º	4º		6º	
3º	4º	5º		7º	
2º	3º		5º	6º	

Livre para uso em casa e na escola. Não revender ou republicar.