Nome: _____ Data: _____/_____/_____

Escreva o número do ordinal (gabarito)

Leia o nome e escreva o número: terceiro é 3º.

segundo = **2º**

terceiro = **3º**

primeiro = **1º**

nono = **9º**

quarto = **4º**

quinto = **5º**

sétimo = **7º**

quinto = **5º**

quarto = **4º**

primeiro = **1º**

décimo = **10º**

sexto = **6º**

sexto = **6º**

sétimo = **7º**

décimo = **10º**

nono = **9º**

oitavo = **8º**

segundo = **2º**

terceiro = **3º**

oitavo = **8º**

Livre para uso em casa e na escola. Não revender ou republicar.

Nome: _____ Data: _____/_____/_____

Escreva o nome do ordinal (gabarito)

Leia o número e escreva o nome: 7º é sétimo.

7º = **sétimo**

9º = **nono**

2º = **segundo**

4º = **quarto**

5º = **quinto**

4º = **quarto**

3º = **terceiro**

7º = **sétimo**

8º = **oitavo**

8º = **oitavo**

6º = **sexto**

5º = **quinto**

1º = **primeiro**

2º = **segundo**

10º = **décimo**

9º = **nono**

3º = **terceiro**

6º = **sexto**

10º = **décimo**

1º = **primeiro**

Livre para uso em casa e na escola. Não revender ou republicar.

Nome: _____ Data: _____/_____/_____

Circule a posição pedida (gabarito)

Conte da esquerda para a direita e circule a figura da posição pedida.

Circule o 5º (quinto).



Circule o 1º (primeiro).



Circule o 2º (segundo).

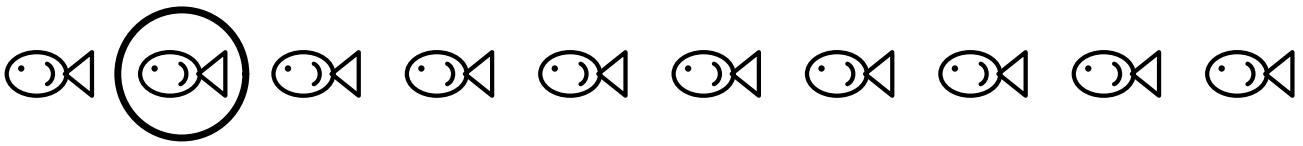

Circule o 9º (nono).



Circule o 1º (primeiro).

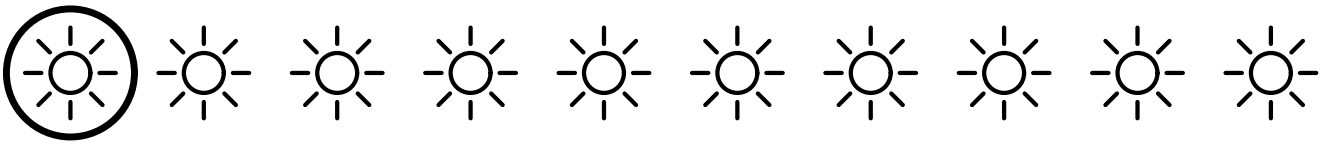

Circule o 6º (sexto).



Livre para uso em casa e na escola. Não revender ou republicar.

Nome: _____ Data: _____/_____/_____

Complete a fila de ordinais (gabarito)

Escreva os ordinais que faltam em cada fila.

3º	4º	**5º**	6º	7º	8º
4º	5º	6º	**7º**	8º	9º
4º	5º	6º	**7º**	8º	9º
3º	4º	**5º**	6º	7º	**8º**
1º	2º	3º	**4º**	**5º**	6º
2º	3º	4º	**5º**	6º	**7º**
3º	4º	5º	**6º**	7º	**8º**
2º	3º	**4º**	5º	6º	**7º**

Livre para uso em casa e na escola. Não revender ou republicar.