Nome: _____ Data: _____/_____/_____

Padrões de dois desenhos

Descubra o que se repete e desenhe as figuras que faltam nas três últimas casas.



Livre para uso em casa e na escola. Não revender ou republicar.

Nome: _____ Data: _____/_____/_____

Padrões de três desenhos

Cada fila repete um grupo de desenhos. Desenhe o que falta no fim.



Livre para uso em casa e na escola. Não revender ou republicar.

Nome: _____ Data: _____/_____/_____

Descubra o desenho do meio

Há casas vazias no meio de cada fila. Observe o padrão e desenhe o que falta.

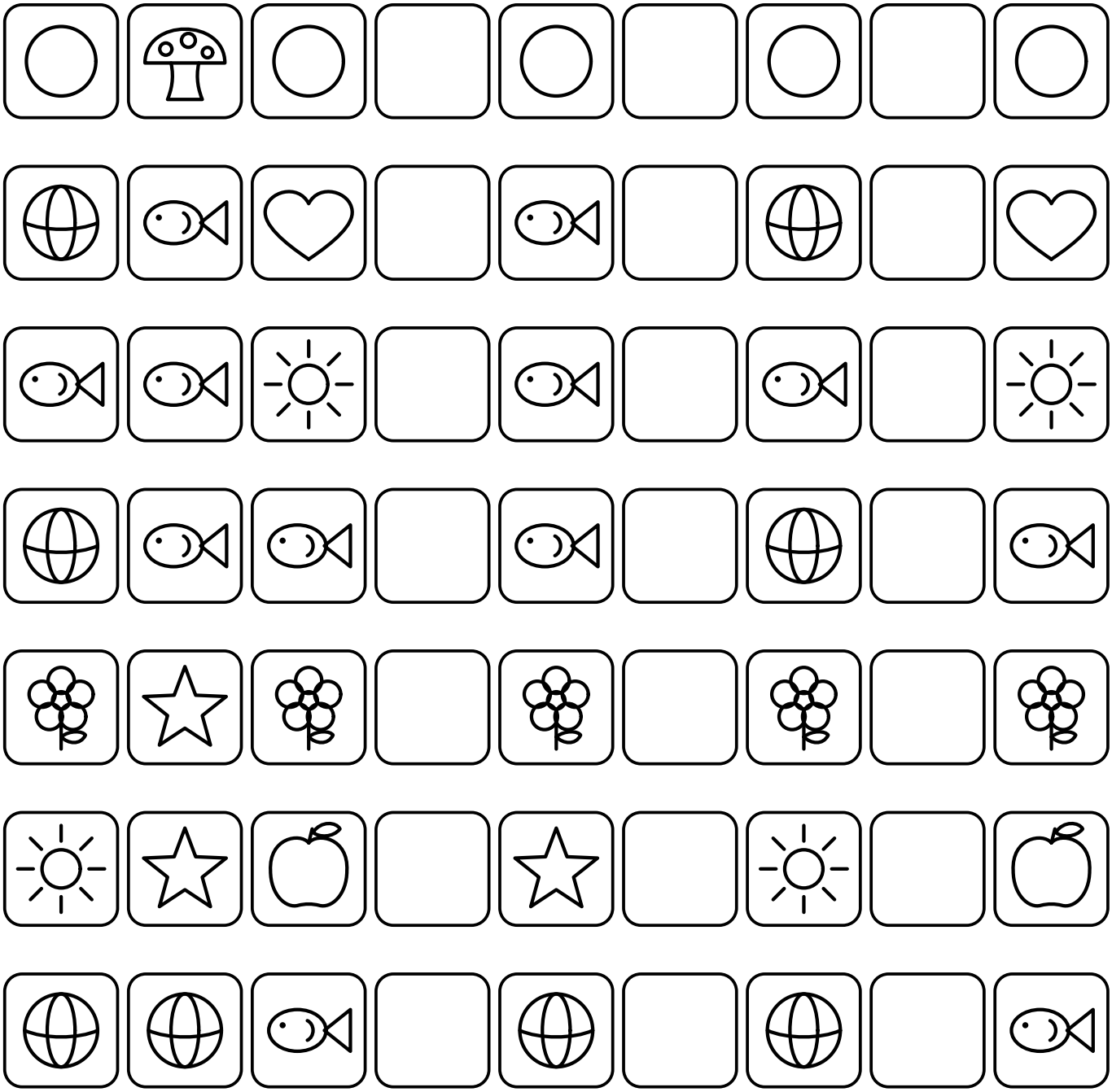

Livre para uso em casa e na escola. Não revender ou republicar.

Nome: _____ Data: _____/_____/_____

Padrões com números

Descubra a regra de cada fila (soma sempre o mesmo número) e complete.

11	13	15	17		
	15	18		24	27
1	5	9		17	
5			20	25	30
		23	33	43	53
	10		14	16	18
	5		11	14	17
5			20	25	30

Livre para uso em casa e na escola. Não revender ou republicar.

Nome: _____ Data: _____/_____/_____

Padrões com números: desafios

Veja de quanto em quanto a fila anda e escreva os números que faltam.

18		30	36	42	
	32		46	53	60
		35	43	51	59
22		40	49		67
	28	39	50	61	
	22		46	58	70
	27	42	57		87
	23	43		83	103

Livre para uso em casa e na escola. Não revender ou republicar.