Nome: _____ Data: _____/_____/_____

Padrões de dois desenhos (gabarito)

Descubra o que se repete e desenhe as figuras que faltam nas três últimas casas.



Livre para uso em casa e na escola. Não revender ou republicar.

Nome: _____ Data: _____/_____/_____

Padrões de três desenhos (gabarito)

Cada fila repete um grupo de desenhos. Desenhe o que falta no fim.

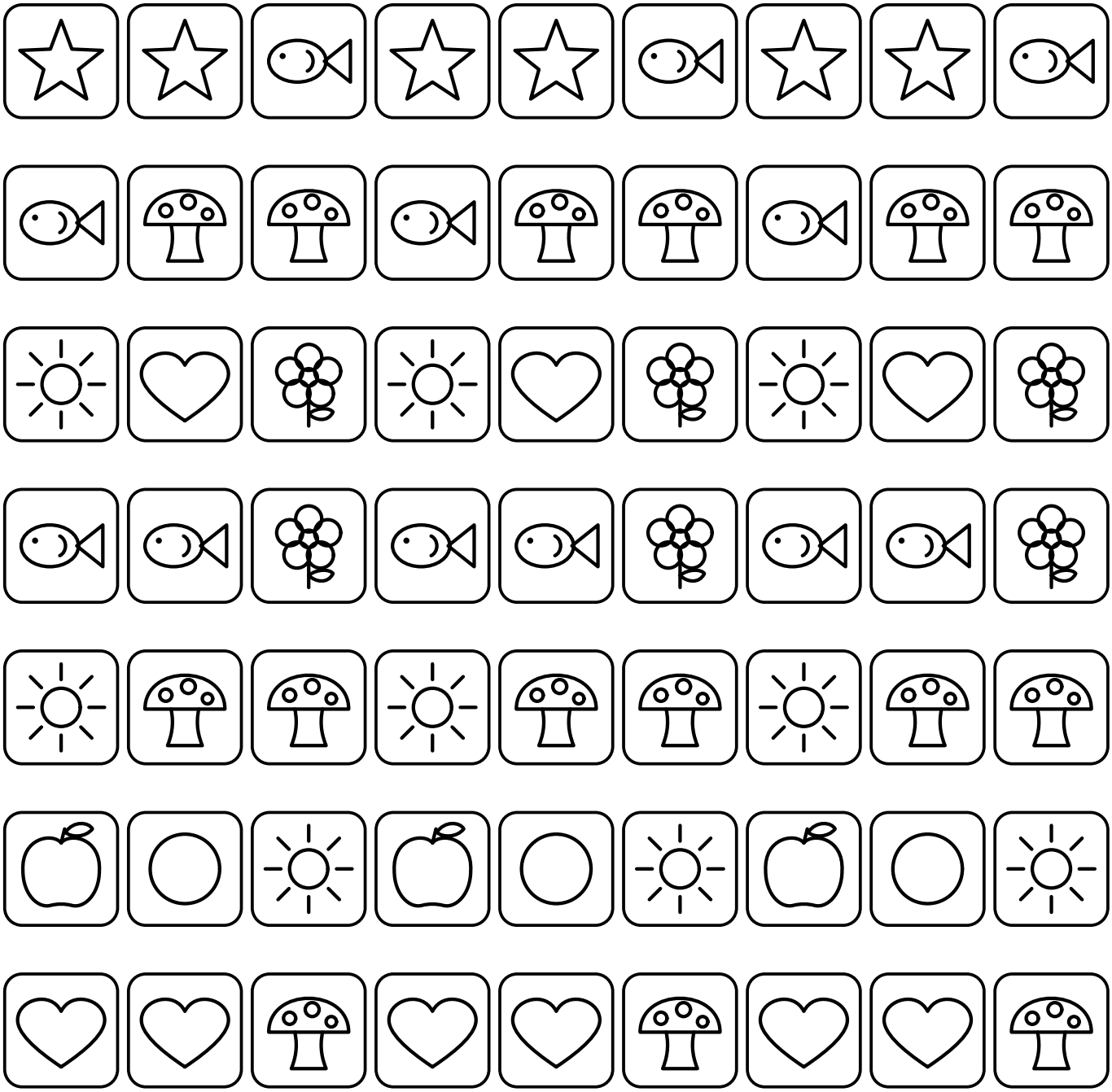

Livre para uso em casa e na escola. Não revender ou republicar.

Nome: _____ Data: _____/_____/_____

Descubra o desenho do meio (gabarito)

Há casas vazias no meio de cada fila. Observe o padrão e desenhe o que falta.

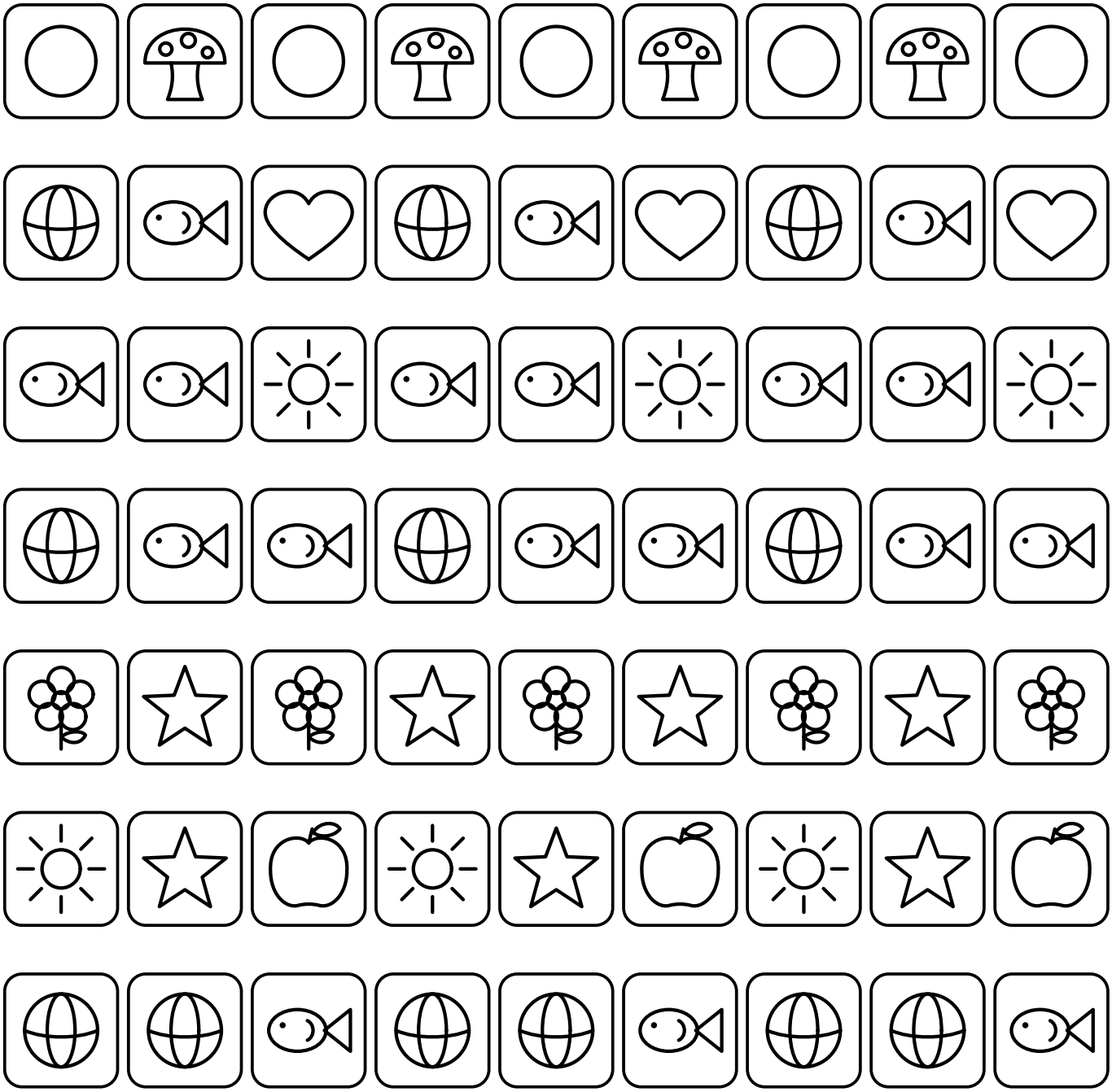

Livre para uso em casa e na escola. Não revender ou republicar.

Nome: _____ Data: _____/_____/_____

Padrões com números (gabarito)

Descubra a regra de cada fila (soma sempre o mesmo número) e complete.

11	13	15	17	**19**	**21**
12	15	18	**21**	24	27
1	5	9	**13**	17	**21**
5	**10**	**15**	20	25	30
3	**13**	23	33	43	53
8	10	**12**	14	16	18
2	5	**8**	11	14	17
5	**10**	**15**	20	25	30

Livre para uso em casa e na escola. Não revender ou republicar.

Nome: _____ Data: _____/_____/_____

Padrões com números: desafios (gabarito)

Veja de quanto em quanto a fila anda e escreva os números que faltam.

18	**24**	30	36	42	**48**
25	32	**39**	46	53	60
19	**27**	35	43	51	59
22	**31**	40	49	**58**	67
17	28	39	50	61	**72**
10	22	**34**	46	58	70
12	27	42	57	**72**	87
3	23	43	**63**	83	103

Livre para uso em casa e na escola. Não revender ou republicar.